INSTITUCION EDUCATIVA TECNICA SUMAPAZ
NIT: 800.029.382-7 **MUNICIPIO: MELGAR**
DIRECCION: CARRERA 25 Nº 5-43

COMPROBANTE DE EGRESO Nº 14 **FECHA: jueves, 24 de julio de 2025**

DEBE A: **ALBA AMPARO CELIS HENAO**
IDENTIFICADO CON NIT Nº **28,846,095 - 2**
LA SUMA DE **$ 20,832,900.00**
VEINTE MILLONES OCHOCIENTOS TREINTA Y DOS MIL NOVECIENTOS PESOS M/CTE.

POR CONCEPTO: PAGO TOTAL POR CONCEPTO DEL CONTRATO No. 005 DEL 25 DE ABRIL DE 2024 SEGÚN CLAUSALA 5 Y DEMAS DOCUMENTOS LEGALES EXIGIDOS POR EL PAGADOR DE LA INSTITUCION PARA SU RESPECTIVA CANCELACION.

FACTURA **Nº** 0-106 miércoles, 23 de julio de 2025

DATOS DE LA FACTURA	
SUBTOTAL FACTURA	20,832,900.00
MAS IVA FACTURADO	-
TOTAL FACTURA	20,832,900.00
TOTAL DEDUCCIONES	843,581.00
NETO A PAGAR	19,989,319.00

			TOTAL DEDUCCIONES
HONORARIOS:	0%	-	843,581.00
SERVICIOS:	0%	-	
COMPRAS:	3.5%	729,000.00	
IVA:	15%	-	
RETE ICA	1%	114,581.00	
BOMBEROS:	0%	-	

IMPUTACIÓN PRESUPUESTAL

CODIGO	**RUBRO**	**FECHA DISPONIBILIDAD**	**FECHA REGISTRO PRESUPUESTAL**	**VALOR**
1.2.4.1.04.2.02.02.00	RECURSOS CALIDAD GRATUIDAD Impresos y Publicaciones 0	7-jul.-25	16-jul.-25	- 20,832,900.00 -

RESPONSABLE DEL REGISTRO GISSETH JOHANA SANDOVAL LOZANO

FORMA DE PAGO

BANCO: BANCO POPULAR **Nº DE CHEQUE:** CTA AH # 500801035112
Nº CUENTA: 110-366-000-54-5 **FECHA CHEQUE:** jueves, 24 de julio de 2025

RICARDO ELIAS MORALES RODRIGUEZ
ORDENADOR DEL GASTO

GISSETH JOHANA SANDOVAL LOZANO
AUXILIAR ADMINISTRATIVO

RECIBÍ CONFORME:

Nombre:
C.C. Nº

Melgar, julio 23 de 2025

CUENTA DE COBRO No. 01

LA INSTITUCION EDUCATIVA TECNICA SUMAPAZ
NIT. 800029382-7

DEBE A:

ALBA AMPARO CELIS HENAO
CC. N° 28.846.095

La suma de **VEINTE MILLONES OCHOCIENTOS TREINTA Y DOS MIL NOVECIENTOS PESOS ($ 20.832.900) MCTE.**

Por concepto de contrato de obra N° 005 del 16 de julio de 2025 cuyo objeto es "**ADQUISICION DE FORMATOS DE DIRECTORES DE GRADO, DOCENTES, COORDINADORES, EXPEDIENTES ACADEMICOS Y DISCIPLINARIOS ESTUDIANTILES, OBSERVADORES Y DEMÁS FORMATOS, GUIAS INSTITUCIONALES Y MATERIAL LITOGRAFICO DE LA INSTITUCIÓN EDUCATIVA TÉCNICA SUMAPAZ**", correspondiente al año lectivo 2025.

Atentamente,

ALBA AMPARO CELIS HENAO
CC. N° 28.846.095
CEL. 3208292628

FAVOR CONSIGNAR A LA CUENTA DE AHORROS **No. 500801035112** DEL BANCO **POPULAR**

Melgar Tolima, 23 de julio de 2025

Señores
INSTITUCION EDUCATIVA TECNICA SUMAPAZ
La ciudad.

Ref. Informe entrega, memorias de cálculo y evidencia fotográfica.

Por medio de la presente, me permito realizar entrega de las actividades realizadas del contrato No. 005 del 07 de julio de 2025, el cual se cumplió a cabalidad, con los compromisos adquiridos, así:

ITEM	Descripción	Cantidad
1	FOTOCOPIAS B/N	61.284
2	FOLLETO TAMAÑO OFICIOS A COLOR	1.500
3	MENCIONES SUMAPAZ DE ORO EN PAPEL FOTOGRAFICO Y DIGITACION	422
4	IMPRESIONES B/N	7.757
5	IMPRESIONES A COLOR	4.744

Cordialmente,



ALBA AMPARO CELIS HENAO
CC. N° **28.846.095**
CEL. 3208292628

PAPELERIA Y SUMINISTROS MELG@R.COM
CALIDAD, CONFIABILIDAD Y CUMPLIMIENTO
Alba Amparo Celis Henao
NIT. 28.846.095-2 · Reg. Simplificado
KM 3 VÍA CARMEN DE APICALA CEL: 321 391 7633
Email: papeleriamelgar@gmail.com
MELGAR-TOLIMA

ACTA DE ENTREGA

Por concepto de contrato de obra N° 005 del 16 de julio de 2025 cuyo objeto es "**ADQUISICION DE FORMATOS DE DIRECTORES DE GRADO, DOCENTES, COORDINADORES, EXPEDIENTES ACADEMICOS Y DISCIPLINARIOS ESTUDIANTILES, OBSERVADORES Y DEMÁS FORMATOS, GUIAS INSTITUCIONALES Y MATERIAL LITOGRAFICO DE LA INSTITUCIÓN EDUCATIVA TÉCNICA SUMAPAZ**", correspondiente al año lectivo 2025.

ITEM	Descripción	Cantidad
1	FOTOCOPIAS B/N	61.284
2	FOLLETO TAMAÑO OFICIOS A COLOR	1.500
3	MENCIONES SUMAPAZ DE ORO EN PAPEL FOTOGRAFICO Y DIGITACION	422
4	IMPRESIONES B/N	7.757
5	IMPRESIONES A COLOR	4.744

PAPELERIA Y SUMINISTROS MELG@R.COM
CALIDAD, CONFIABILIDAD Y CUMPLIMIENTO
Alba Amparo Celis Henao
NIT. 28.846.095-2 · Reg. Simplificado
KM 3 VÍA CARMEN DE APICALA CEL: 321 391 7633
Email: papeleriamelgar@gmail.com
MELGAR-TOLIMA

Evidencia Fotográfica



PAPELERIA Y SUMINISTROS MELG@R.COM
CALIDAD, CONFIABILIDAD Y CUMPLIMIENTO
Alba Amparo Celis Henao
NIT. 28.846.095-2 · Reg. Simplificado
KM 3 VÍA CARMEN DE APICALA CEL: 321 391 7633
Email: papeleriamelgar@gmail.com
MELGAR-TOLIMA

1. Ruth conduce un taxi. Ella registró en la siguiente tabla la cantidad de recorridos que hizo el lunes y el valor de cada recorrido.

Cantidad de recorridos	Valor de cada recorrido
7	$5.000
2	$35.000
4	$15.000

Ruth realizó el siguiente procedimiento para calcular el dinero que ganó:

Paso 1. Multiplicó el valor de cada recorrido por la cantidad de recorridos realizados.
Paso 2. Sumó los resultados encontrados en el paso 1.
Paso 3. Al resultado obtenido en el paso 2 le restó $30.000, que fue lo que gastó en gasolina.

¿Cuánto dinero ganó Ruth el lunes?

A. $25.000
B. $55.000
C. $135.000
D. $165.000

2. Luciana va a tomar un medicamento. Cada mes debe tomar 5 sobres y el tratamiento tiene una duración de 5 meses. Si cada sobre tiene 5 cápsulas, ¿cuántas cápsulas tomará Luciana durante todo el tratamiento?

A. 1.025
B. 125
C. 25
D. 15

3. Francisco va a la tienda y observa el siguiente aviso.

10 libras de nueces por $48.000

¿Cuál de las siguientes estrategias le permite a Francisco calcular correctamente el precio que se debe pagar por 25 libras de nueces?

A. **Paso 1.** Multiplicar 48.000 por 2.
Paso 2. Dividir 48.000 entre 5.
Paso 3. Sumar los resultados del paso 1 y paso 2.

B. **Paso 1.** Multiplicar 48.000 por 2.
Paso 2. Dividir 48.000 entre 2.
Paso 3. Sumar los resultados del paso 1 y paso 2.

C. **Paso 1.** Dividir 48.000 entre 10.
Paso 2. Multiplicar 48.000 por 15.
Paso 3. Sumar los resultados del paso 1 y paso 2.

D. **Paso 1.** Dividir 48.000 en 2.
Paso 2. Multiplicar 48.000 por 20.
Paso 3. Sumar los resultados del paso 1 y paso 2.

PAPELERIA Y SUMINISTROS MELG@R.COM
CALIDAD, CONFIABILIDAD Y CUMPLIMIENTO
Alba Amparo Celis Henao
NIT. 28.846.095-2 · Reg. Simplificado
KM 3 VÍA CARMEN DE APICALA CEL: 321 391 7633
Email: papeleriamelgar@gmail.com
MELGAR-TOLIMA

1. Los estudiantes de un colegio recolectaron la información correspondiente a la edad de un grupo de habitantes. La tabla recoge algunos de los percentiles de las edades de los encuestados.

Percentil	10	20	25	35	45	50	60	70	75	85	95	100
Edad	12	15	23	27	28	30	33	36	44	49	50	51

Por ejemplo, el percentil 60 refleja que el 60 % de los encuestados tiene menos de 33 años. ¿Cuál de las siguientes gráficas representa de manera correcta los cuartiles de los datos?

A.

Cuartil	25	50	75
Edad	27	36	51

B.

Cuartil	1	2	3
Edad	27	36	51

C.

Cuartil	25	50	75
Edad	23	30	44

D.

Cuartil	1	2	3
Edad	23	30	44

2. En un museo se desea colocar un láser que formará parte del sistema de seguridad y que protege 5 obras de arte que se encuentran en un nicho. El haz de luz emitido por el láser recorre el nicho como se muestra en la figura.

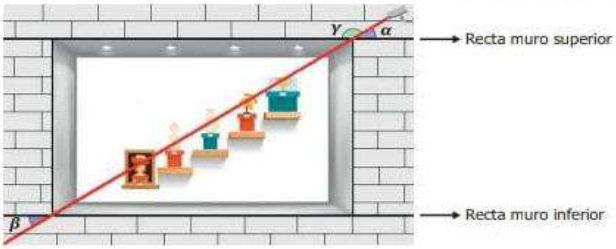

Debido a que el nicho es rectangular, los muros superior e inferior forman dos rectas paralelas entre sí. Adicionalmente, se conoce el valor del ángulo γ, y se desea conocer el valor del ángulo β con el fin de verificar la correcta ubicación del láser. Para ello, el administrador del museo realiza el siguiente procedimiento:

Paso 1. Resta a 180° el valor de γ. Este valor corresponde al valor del ángulo α.
Paso 2. Iguala el valor del ángulo α obtenido en el paso 1 al valor del ángulo β.

Una persona afirma que con este procedimiento **NO** es posible determinar el ángulo β. ¿Es verdadera la afirmación de la persona?

A. No, porque los ángulos γ y α son complementarios y los ángulos α y β son opuestos por el vértice.
B. Sí, porque los ángulos γ y α son suplementarios, entonces suman 90° y no 180°.
C. No, porque los ángulos γ y α son suplementarios y los ángulos α y β son alternos externos.
D. Sí, porque los ángulos α y β tienen dirección diferente, por lo tanto no serían iguales.

3. Los triángulos ABC y $A'B'C'$ en la figura satisfacen $\frac{c}{c'} = \frac{\alpha}{\alpha'} = \frac{b}{b'} = 2$ (es decir, la constante de proporcionalidad entre los lados correspondientes es 2).

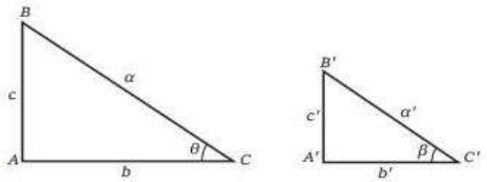

Un estudiante asegura que $\theta = 2\beta$. ¿Es verdadera la afirmación del estudiante?

A. No, pues al ser triángulos semejantes los ángulos correspondientes son iguales.
B. No, pues al ser triángulos congruentes los ángulos correspondientes son iguales.
C. Sí, pues en triángulos semejantes la constante de proporcionalidad se aplica en ángulos.
D. Sí, pues en triángulos congruentes la constante de proporcionalidad se aplica en ángulos.

PAPELERIA Y SUMINISTROS MELG@R.COM

CALIDAD, CONFIABILIDAD Y CUMPLIMIENTO



Alba Amparo Celis Henao
NIT. 28.846.095-2 · Reg. Simplificado
KM 3 VÍA CARMEN DE APICALA CEL: 321 391 7633
Email: papeleriamelgar@gmail.com
MELGAR-TOLIMA



NOMBRE APELLIDO / ALUMNO ID / CLASE / EXAMEN NOMBRE

Alumno ID

0 1 2 3 4 5 6 7 8 9
0 1 2 3 4 5 6 7 8 9

No dañes los cuadrados exteriores.

No dañe el cuadrilátero exterior.

Respuestas							
1	A	B	C	D	E	F	G
2	A	B	C	D	E	F	G
3	A	B	C	D	E	F	G
4	A	B	C	D	E	F	G
5	A	B	C	D	E	F	G
6	A	B	C				
7	A	B	C				
8	A	B	C				
9	A	B	C				
10	A	B	C				
11	A	B	C				
12	A	B	C				
13	A	B	C				

Respuestas				
14	A	B	C	D
15	A	B	C	D
16	A	B	C	D
17	A	B	C	D
18	A	B	C	D
19	A	B	C	D
20	A	B	C	D
21	A	B	C	D
22	A	B	C	D
23	A	B	C	D
24	A	B	C	D
25	A	B	C	D
26	A	B	C	D

testplus.top

INGLES 2025

NOMBRE APELLIDO / ALUMNO ID / CLASE / EXAMEN NOMBRE

Alumno ID

0 1 2 3 4 5 6 7 8 9
0 1 2 3 4 5 6 7 8 9

No dañes los cuadrados exteriores.

No dañe el cuadrilátero exterior.

Respuestas							
1	A	B	C	D	E	F	G
2	A	B	C	D	E	F	G
3	A	B	C	D	E	F	G
4	A	B	C	D	E	F	G
5	A	B	C	D	E	F	G
6	A	B	C				
7	A	B	C				
8	A	B	C				
9	A	B	C				
10	A	B	C				
11	A	B	C				
12	A	B	C				
13	A	B	C				

Respuestas				
14	A	B	C	D
15	A	B	C	D
16	A	B	C	D
17	A	B	C	D
18	A	B	C	D
19	A	B	C	D
20	A	B	C	D
21	A	B	C	D
22	A	B	C	D
23	A	B	C	D
24	A	B	C	D
25	A	B	C	D
26	A	B	C	D

testplus.top

INGLES 2025

NOMBRE APELLIDO / ALUMNO ID / CLASE / EXAMEN NOMBRE

Alumno ID

0 1 2 3 4 5 6 7 8 9
0 1 2 3 4 5 6 7 8 9

No dañes los cuadrados exteriores.

No dañe el cuadrilátero exterior.

Respuestas							
1	A	B	C	D	E	F	G
2	A	B	C	D	E	F	G
3	A	B	C	D	E	F	G
4	A	B	C	D	E	F	G
5	A	B	C	D	E	F	G
6	A	B	C				
7	A	B	C				
8	A	B	C				
9	A	B	C				
10	A	B	C				
11	A	B	C				
12	A	B	C				
13	A	B	C				

Respuestas				
14	A	B	C	D
15	A	B	C	D
16	A	B	C	D
17	A	B	C	D
18	A	B	C	D
19	A	B	C	D
20	A	B	C	D
21	A	B	C	D
22	A	B	C	D
23	A	B	C	D
24	A	B	C	D
25	A	B	C	D
26	A	B	C	D

testplus.top

NOMBRE APELLIDO / ALUMNO ID / CLASE / EXAMEN NOMBRE

Alumno ID

0 1 2 3 4 5 6 7 8 9
0 1 2 3 4 5 6 7 8 9

No dañes los cuadrados exteriores.

No dañe el cuadrilátero exterior.

Respuestas							
1	A	B	C	D	E	F	G
2	A	B	C	D	E	F	G
3	A	B	C	D	E	F	G
4	A	B	C	D	E	F	G
5	A	B	C	D	E	F	G
6	A	B	C				
7	A	B	C				
8	A	B	C				
9	A	B	C				
10	A	B	C				
11	A	B	C				
12	A	B	C				
13	A	B	C				

Respuestas				
14	A	B	C	D
15	A	B	C	D
16	A	B	C	D
17	A	B	C	D
18	A	B	C	D
19	A	B	C	D
20	A	B	C	D
21	A	B	C	D
22	A	B	C	D
23	A	B	C	D
24	A	B	C	D
25	A	B	C	D
26	A	B	C	D

testplus.top

PAPELERIA Y SUMINISTROS MELG@R.COM
CALIDAD, CONFIABILIDAD Y CUMPLIMIENTO
Alba Amparo Celis Henao
NIT. 28.846.095-2 · Reg. Simplificado
KM 3 VÍA CARMEN DE APICALA CEL: 321 391 7633
Email: papeleriamelgar@gmail.com
MELGAR-TOLIMA

1. El viernes un almacén vendió 1.000 prendas entre camisetas y pantalones, cada prenda tiene un valor de $30.000. La gerente realiza una auditoria a la caja y encuentra que hay un total de $2.000.000 por las ventas de ese día y considera que hay un error en la información de las ventas. Si x representa la cantidad de pantalones vendidos y y la cantidad de camisetas vendidas. ¿Cuál de los siguientes sistemas corresponde a la información y permite identificar que hay un error?

A. $\left\{\begin{matrix} x + y = 1.000 \\ 30.000x + 30.000y = 2.000.000 \end{matrix}\right\}$ y verificar que no tiene solución.

B. $\left\{\begin{matrix} 1.000x + 1.000y = 30.000 \\ x + y = 2.000.000 \end{matrix}\right\}$ y verificar que no tiene solución.

C. $\left\{\begin{matrix} x + y = 1.000 \\ 30.000x + 30.000y = 2.000.000 \end{matrix}\right\}$ y verificar que $x \neq y$.

D. $\left\{\begin{matrix} 1.000x + 1.000y = 30.000 \\ x + y = 2.000.000 \end{matrix}\right\}$ y verificar que $x \neq y$.

2. Las estudiantes de grado noveno están definiendo el uniforme para un torneo de microfútbol. Entre las opciones tienen tres posibles colores de camisetas, rosada, negra o blanca; dos posibles colores de pantaloneta, blanca o negra; y dos posibles colores de medias, blancas o rosadas.

¿En cuál de las siguientes tablas se pueden ver todas las combinaciones posibles que hay para escoger el diseño del uniforme?

A.

Camiseta	Pantaloneta	Medias
Rosada	Negra Blanca	Blancas Negras
Negra		
Blanca		

B.

Camiseta	Pantaloneta	Medias
Rosada	Negra	Blancas
	Blanca	Rosadas
Negra	Negra	Blancas
	Blanca	Rosadas
Blanca	Negra	Blancas
		Rosadas
	Blanca	Blancas
		Rosadas

C.

Medias	Pantaloneta	Camiseta
Blancas	Negra	Rosada
Rosadas		
Blancas	Blanca	
Rosadas		
Blancas	Negra	Negra
Rosadas		
Blancas	Blanca	
Rosadas		
Blancas	Negra	Blanca
Rosadas		
Blancas	Blanca	
Rosadas		

D.

Medias	Pantaloneta	Camiseta
Blancas	Negra	Rosada
Rosadas		
Blancas	Negra	Negra
Rosadas		
Blancas	Negra	Blanca
Rosadas		

PAPELERIA Y SUMINISTROS MELG@R.COM

CALIDAD, CONFIABILIDAD Y CUMPLIMIENTO

Alba Amparo Celis Henao
NIT. 28.846.095-2 · Reg. Simplificado
KM 3 VÍA CARMEN DE APICALA CEL: 321 391 7633
Email: papeleriamelgar@gmail.com
MELGAR-TOLIMA



BUNDE TOLIMENSE

Autor: Nicanor Velásquez
Música: Alberto Castilla

Canta el alma de mi raza
en el bunde de castilla
y este canto es el sol que abraza.

Nacer, vivir, morir
amando el magdalena
la pena se hace buena
y alegre el existir.

Baila, baila, baila
sus bambucos mi Tolima
y el aguardiente
es mas valiente y leal.

Soy vaquero tolimense
y en el pecho llevo espumas
va mi potro entre las brumas
con cocuyos en la frente
y al sentir mi galopar
galopa el amor del corazón.

Pues mi rejo va enlazar
las dulzuras del amor
con la voz de mi cantar.



INSTITUCION EDUCATIVA TÉCNICA SUMAPAZ
Organización
ÁREA DE CIENCIAS SOCIALES
Y FILOSOFÍA

RICARDO ELÍAS MORLES
Rector
JEREMÍAS RUBIANO
Coordinador General
SANDRA MÓNICA GUZMÁN
Coordinada Académica

Docentes
ADRIANA VARGAS GUTIÉRREZ
ARCESIO QUINTERO
ARNULFO LÓPEZ BARRERO
GLORIA LUCERO GONZÁLEZ
KAREN VIVIANA SÁNCHEZ
NATALIA SUAZA MORENO
MIRTHA LILÍ SUAREZ ORTIZ
RAFAELA CARREÑO
RUTH BELLY GUTIÉRREZ

2025

INSTITUCIÓN EDUCATIVA TÉCNICA SUMAPAZ

ÁREA DE CIENCIAS SOCIALES

SEDE CAMPESTE

12 DE ABRIL
DÍA DEL TOLIMA

Historia, cultura y tradición!



Volcán del Tolima



En la mitología tolimense, el Nevado del Tolima es conocido como Dulima, que significa "río de nieve". Este volcán está relacionado con la espiritualidad de los pijaos y panches.

El Nevado del Tolima es un volcán nevado ubicado en la Cordillera Central de los Andes colombianos.

El Nevado del Tolima es una de las cumbres más altas del país.

Se encuentra en los departamentos de Tolima y Quindío.

Forma parte del Parque Nacional Natural Los Nevados.

En la historia eruptiva del Nevado del Tolima se cuenta que La última gran erupción del Nevado del Tolima ocurrió hace unos 3600 años.

Se han registrado erupciones explosivas menores en el Tolima en los siglos XIX y XX.

¿Sabías que tenemos nutrias en el río Sumapaz?



La nutria de río es una especie vulnerable de extinción para Colombia, según la lista roja de especies amenazadas de la UICN (Unión Internacional para la Conservación de la Naturaleza) En el Tolima, se encuentran nutrias en el río Sumapaz y en la quebrada de La Golondrina, en Melgar.

Características de las nutrias

Puede llegar a tener una longitud de 90 a 140 cm y un peso entre 5 y 24 Kg; la nutria de río es color gris oscuro en la parte dorsal, con pelo muy grueso y denso, cabeza pequeña, ojos pequeños y orejas pequeñas y redondeadas, sus patas son cortas y robustas teniendo en sus cinco dedos con garras, una membrana interdigital que le ayuda a su desplazamiento en el agua

La nutria neotropical habita en una gran cantidad de ecosistemas y es una especie semiacuatica, entre su hábitat se puede encontrar áreas con cuerpos de agua donde incluye bosques rivereños, pantanos, sabanas, climas templados y fríos, también puede habitar en ríos, riachuelos, arroyos, canales, desembocaduras fluviales, básicamente el factor decisivo para la elección del hábitat es la existencia de una buena fuente de alimento y de diversas estructuras tanto de las orillas como en el agua, ejemplo de estas son rocas, troncos y zonas boscosas





Cinco razones para escoger el 12 de abril

La Academia de Historia del Tolima, expresa así los momentos claves para tal determinación:

1. El 12 de abril de 1861 nació la vida constitucional, territorial, jurisdiccional y jurídica la denominación del Tolima como Estado Soberano.
2. En esta fecha desaparecen como nombres identificados de la región, los acordados para las provincias de Mariquita y Neiva.
3. Se crea el cargo de gobernador de la Asamblea Constituyente Estatal y las demás conformaciones administrativas, legislativas y jurídicas del Tolima.
4. La Calificación de los Tolimenses para los habitantes del Estado Soberano.
5. Se da la demarcación territorial que se denomino en adelante Tolima, emergiendo con la inspiración de poetas, escritores, historiadores, profesores y periodistas.

Institucionalización del Día del Tolima

La Asamblea del Tolima, expidió la ordenanza 0051 de 2001, por medio de la cual, se institucionalizo el 12 de Abril como "Día del Tolima". Así mismo ordena en su ar-

PAPELERIA Y SUMINISTROS MELG@R.COM

CALIDAD, CONFIABILIDAD Y CUMPLIMIENTO



Alba Amparo Celis Henao
NIT. 28.846.095-2 · Reg. Simplificado
KM 3 VÍA CARMEN DE APICALA CEL: 321 391 7633
Email: papeleriamelgar@gmail.com
MELGAR-TOLIMA



INSTITUCIÓN EDUCATIVA TÉCNICA SUMAPAZ
MELGAR - TOLIMA
RESOLUCIÓN 1937 MARZO 31 DE 2024. SECRETARÍA DE EDUCACIÓN DEL TOLIMA
NIT: 800.029.382-7 CÓDIGO DANE: 173449000015

REGISTRO DE HECHOS Y TIPIFICACIÓN DE LA SITUACIÓN O ACCION QUE AFECTA LA CONVIVENCIA

CONTROL Y SEGUIMIENTO A ESTUDIANTES

(*De acuerdo a la Ley 115/94, Ley 715 de 2002, Decretos reglamentarios y según lo establecido en el Manual de Normas Escolares, Contrato de Matrícula y demás normas vigentes.*)

SEDE _____ **JORNADA** _____ **FECHA** _____ **PERIODO** _____
LUGAR Y HORA DE LOS HECHOS: _____ _____
ESTUDIANTE_____ **GRADO**_____ **EDAD**_____ Años
TIPO Y NUMERO DE DOCUMENTO: _____ _____
PADRE DE FAMILIA: _____ **No DOCUMENTO:** _____
DIRECTIVO o DOCENTE QUE ATENDIO LA SITUACION: _____

1. **REGISTRO DE HECHOS:** *Significa realizar la identificación de la/s presunta/s acción/es y/o, hechos y la descripción de la situación presentada. La realiza el DIRECTIVO o DOCENTE conocedor de la situación. Implica describir las acciones de manera clara y suscita. (Se requiere anexar las Fichas de descripción de hechos):*
   _____
   _____
   _____
2. **TIPIFICACIÓN DE LA ACCIÓN O SITUACIÓN QUE AFECTA LA CONVIVENCIA:**
   Grave;___; Gravísima:_____ o Tipo de Acción: I:____; II:____; III:_____
3. **ATENUANTES:** Significa circunstancia concurrente en la comisión de una acción o hecho susceptible por su naturaleza de aminorar la responsabilidad y el o los consiguiente/s correctivo/s del o los autores, es decir que disminuye la gravedad de ella): _____
   _____
4. **EXIMENTES DE RESPONSABILIDAD** (Son aquellas particularidades de la acción o de la omisión que imprimen al acto, cierto carácter que lo justifica o que determina la impunidad):
   _____
   _____
5. **CIRCUNSTANCIAS AGRAVANTES** (Son aquellas que aumentan la responsabilidad frente a una acción o hecho al denotar una mayor intencionalidad o perversidad en el autor):
   _____
6. **DESCARGOS**: _____
   _____

_____ _____
FIRMA DEL PADRE DE FAMILIA **FIRMA DEL ESTUDIANTE**

_____ _____
DIRECTIVO o DOCENTE QUE ATENDIO LA SITUACION **COORDINADOR**

REGISTRO DE HECHOS

PAPELERIA Y SUMINISTROS MELG@R.COM

CALIDAD, CONFIABILIDAD Y CUMPLIMIENTO



Alba Amparo Celis Henao
NIT. 28.846.095-2 · Reg. Simplificado
KM 3 VÍA CARMEN DE APICALA CEL: 321 391 7633
Email: papeleriamelgar@gmail.com
MELGAR-TOLIMA





INSTITUCIÓN EDUCATIVA TÉCNICA SUMAPAZ
MELGAR - TOLIMA
RECONOCIMIENTO DE ESTUDIOS HASTA NUEVA VISITA SEGÚN RESOLUCIÓN No. 1885 (MAYO 18 DE 2021), DE LA SECRETARIA DE EDUCACIÓN DEL TOLIMA
NIT: 800.029. 382 – 7 CÓDIGO DANE 173449000015

REGISTRO DE HECHOS Y TIPIFICACIÓN DE LA SITUACIÓN O FALTA
CONTROL Y SEGUIMIENTO A ESTUDIANTES

(De acuerdo a la Ley 115/94, Ley 715 de 2002, Decretos reglamentarios y según lo establecido en el Manual de Normas Escolares, Contrato de Matrícula y demás normas vigentes.)

SEDE _____ **JORNADA** _____ **FECHA** _____ **PERIODO** _____
LUGAR Y HORA DE LOS HECHOS: _____ _____
ESTUDIANTE_____ **GRADO**_____ **EDAD**_____ Años
TIPO Y NUMERO DE DOCUMENTO: _____ _____
PADRE DE FAMILIA: _____ **No DOCUMENTO:** _____
DIRECTIVO o DOCENTE QUE ATENDIO LA SITUACION: _____

1. **REGISTRO DE HECHOS:** *Significa realizar la identificación de la/s presunta/s acción/es y la descripción de la situación presentada. La realiza el DIRECTIVO o DOCENTE conocedor de la situación. Implica describir las acciones de manera clara y suscita. (Se requiere anexar las Fichas de descripción de hechos):*
   _____
   _____
   _____
2. **TIPIFICACIÓN DE LA ACCIÓN (Falta) o SITUACIÓN:**
   Falta Grave; ___; Gravísima: _____ o Tipo de Acción: I: ____; II: ____; III: _____
3. **ATENUANTES:** Significa circunstancia concurrente en la comisión de una acción susceptible por su naturaleza de aminorar la responsabilidad y el o los consiguiente/s correctivo/s del o los autores, es decir que disminuye la gravedad de ella): _____
   _____
4. **EXIMENTES DE RESPONSABILIDAD** (Son aquellas particularidades de la acción o de la omisión que imprimen al acto, cierto carácter que lo justifica o que determina la impunidad):
   _____
   _____
5. **CIRCUNSTANCIAS AGRAVANTES** (Son aquellas que aumentan la responsabilidad frente a una acción al denotar una mayor intencionalidad o perversidad en el autor):
   _____
6. **DESCARGOS**: _____
   _____

_____ _____
FIRMA DEL PADRE DE FAMILIA **FIRMA DEL ESTUDIANTE**

_____ _____
DIRECTIVO o DOCENTE QUE ATENDIO LA SITUACION **COORDINADOR**

REGISTRO DE HECHOS

PAPELERIA Y SUMINISTROS MELG@R.COM

CALIDAD, CONFIABILIDAD Y CUMPLIMIENTO

Alba Amparo Celis Henao
NIT. 28.846.095-2 · Reg. Simplificado
KM 3 VÍA CARMEN DE APICALA CEL: 321 391 7633
Email: papeleriamelgar@gmail.com
MELGAR-TOLIMA





	INSTITUCIÓN EDUCATIVA TÉCNICA SUMAPAZ – SEDE CAMPESTRE	Servicio de Orientación escolar
		Formato Remisión a Orientación
	FORMATO REMISIÓN DOCENTE A ORIENTACIÓN ESCOLAR	

FECHA:	D	M	A	DOCENTE QUIEN REMITE:		
ÁREA:				DIRECTOR DE GRADO		
SEDE				JORNADA		
ESTUDIANTE					GRADO	
EDAD				Nº DOC. IDENTIDAD		
ACUDIENTE					CELULAR	

DESCRIPCIÓN DE LA SITUACIÓN:

ACCIONES REALIZADAS POR EL DOCENTE:

ACCIONES REALIZADAS POR EL COORDINADOR (A)

DOCENTE	COORDINADOR	PADRE DE FAMILIA

OBSERVACIONES:



PAPELERIA Y SUMINISTROS MELG@R.COM

CALIDAD, CONFIABILIDAD Y CUMPLIMIENTO

Alba Amparo Celis Henao
NIT. 28.846.095-2 · Reg. Simplificado
KM 3 VÍA CARMEN DE APICALA CEL: 321 391 7633
Email: papeleriamelgar@gmail.com
MELGAR-TOLIMA





INSTITUCIÓN EDUCATIVA TÉCNICA SUMAPAZ
MELGAR - TOLIMA
[illegible]
[illegible] SECRETARÍA DE EDUCACIÓN DEL TOLIMA CÓDIGO DANE [illegible]

CONTROL Y SEGUIMIENTO A ESTUDIANTES

SEDE: _____

(De acuerdo a la Ley 115/94, Ley 715 de 2002, Decretos reglamentarios y según lo establecido en el Manual de Normas Escolares, Contrato de Cooperación de Matrícula y demás normas vigentes.)

ACTA DE COMPROMISO No. _____

Sede _____ Jornada _____ Curso _____ Fecha _____

Nombre Estudiante _____

Nombre Padre de Familia y/o Acudiente _____

Docente y/o Administrativo _____

COMPROMISO

_____
_____
_____
_____

Control y seguimiento (verificación cumplimiento) _____
_____
_____
_____

_____	_____	_____
Estudiante	Padre de Familia y/o Acudiente	Docente y/o Administrativo

"CONSTRUYENDO CIUDADANÍA"

PAPELERIA Y SUMINISTROS MELG@R.COM

CALIDAD, CONFIABILIDAD Y CUMPLIMIENTO
Alba Amparo Celis Henao
NIT. 28.846.095-2 · Reg. Simplificado
KM 3 VÍA CARMEN DE APICALA CEL: 321 391 7633
Email: papeleriamelgar@gmail.com
MELGAR-TOLIMA

Quien Entrega

Quien recibe



Alba Amparo Celis Henao
Contratista

Jeremías Rubiano Hernández
Coordinador

Banco Popular

Certifica

Que **Alba Amparo Celis Henao**, identificado(a) con Cédula de Ciudadanía Nro. **28846095** es titular de la **Cuenta de Ahorros** Nro. **500801035112** y a la fecha ha presentado un manejo conforme a lo establecido en el contrato.

Esta certificación se expide a solicitud del titular con destino a : **institución educativa técnica sumapaz** a los 7 días del mes de mayo del año 2025.

Atentamente,

Banco Popular S.A.

Documento sin firma

VIGILADO SUPERINTENDENCIA FINANCIERA DE COLOMBIA

aportes en línea

Planilla Resumen

DATOS GENERALES DEL APORTANTE

Identificación	dv	Razon Social	Clase Aportante	Sucursal Principal	Direccion	Ciudad-Departamento	Teléfono	Exonerado SENA e ICBF
CC 28846095		CELIS HENAO ALBA AMPARO	INDEPENDIENTE	PRINCIPAL	BARRIO 17 ENERO MAZ 6 CASA 3	MELGAR-TOLIMA	5555555	No

DATOS GENERALES DE LA LIQUIDACION

Periodo		Clave		Tipo	Fecha		Pago		
Pensión	Salud	Pago	Planilla	Planilla	Limite	Pago	Banco	Dias Mora	Valor
2025-06	2025-06	1630546851	9488933798	I	2025/07/22	2025/07/16	NEQUI	0	$405,800

LIQUIDACION DETALLADA DE APORTES

EMPLEADO			NOVEDADES																PENSION		SALUD		CCF		RIESGOS			PARAFISCALES	
No.	Identificación	Nombre	ing	ret	tde	tae	tdp	tap	vsp	cor	vst	sln	ige	lma	vac	avp	vct	irl	vip	Codigo	Dias	Codigo	Dias	Codigo	Dias	Codigo	Dias	Tarifa	Dias	Exonerado SENA e ICBF
SUCURSAL: PRINCIPAL (1 Afiliados)																														
Centro de Trabajo: PRINCIPAL (1 Afiliados)																														
Ciudad: MELGAR Depto: TOLIMA (1 Afiliados)																														
1	CC	28846095	CELIS ALBA	X	X															25-14	30	EPS017	30		0		0	0.000%	0	No
Total	**Afiliados(1)**																													

DATOS GENERALES DEL APORTANTE

Identificación	dv	Razon Social	Clase Aportante	Sucursal Principal	Direccion	Ciudad-Departamento	Teléfono	Exonerado SENA e ICBF
CC 28846095		CELIS HENAO ALBA AMPARO	INDEPENDIENTE	PRINCIPAL	BARRIO 17 ENERO MAZ 6 CASA 3	MELGAR-TOLIMA	5555555	No

DATOS GENERALES DE LA LIQUIDACION

Periodo		Clave		Tipo	Fecha		Pago		
Pensión	Salud	Pago	Planilla	Planilla	Limite	Pago	Banco	Dias Mora	Valor
2025-06	2025-06	1630546851	9488933798	I	2025/07/22	2025/07/16	NEQUI	0	$405,800

RESUMEN DE PAGO

RIESGO	CODIGO	NIT	DV	AFILIADOS	VALOR LIQUIDADO	INTERESES MORA	SALDOS E INCAPACIDADES	VALOR A PAGAR
AFP (ADMINISTRADORAS: 1)				1	$227,800	$0	$0	$227,800
COLPENSIONES	25-14	900,336,004	7	1	$227,800	$0	$0	$227,800
EPS (ADMINISTRADORAS: 1)				1	$178,000	$0	$0	$178,000
FAMISANAR	EPS017	830,003,564	7	1	$178,000	$0	$0	$178,000
TOTAL				1	$405,800	$0	$0	$405,800

PAPELERIA Y SUMINISTROS MELG@R.COM

CALIDAD, CONFIABILIDAD Y CUMPLIMIENTO

Alba Amparo Celis Henao
NIT. 28.846.095-2 · Reg. Simplificado
KM 3 VÍA CARMEN DE APICALA CEL: 321 391 7633
Email: papeleriamelgar@gmail.com
MELGAR-TOLIMA

FACTURA DE VENTA Nº 106

Fecha JULIO 23 de 2025

Señor (es): Institucion educativa tecnica Somapoz

Dirección: Km 3 via carmen Apicala Ciudad: Melgar

NIT. 800029382-7 Teléfono:

Cant.	Detalle	Valor U.	Valor Total
61284	Fotocopias B/N	200	12.256800
1500	Folletos tamaño oficio A color	1600	2.400.000
422	Menciones Somapoz de oro en papel Fotografico y Digitacion	3500	1.477.000
7757	Impresiones B/N	300	2.327.100
4744	Impresiones A color	500	2372.000
		TOTAL $	20.832.900

ESTA FACTURA DE VENTA SE ASIMILA EN TODOS SUS EFECTOS LEGALES A UNA LETRA DE CAMBIO. SEGÚN ART. 774 DEL CÓDIGO DE COMERCIO.

VENDEDOR

CLIENTE C.C. O NIT.

LITOMELGAR - Leonardo Rubiano. NIT. 14.250.608-0 Tel. 2451817Melgar

CERTIFICACIÓN DE CUMPLIMIENTO

Teniendo en cuenta el informe presentado por la contratista **ALBA AMPARO CELIS HENAO,** sobre las actividades desarrolladas para dar cumplimiento a los términos contratados y los resultados obtenidos, una vez realizada la revisión del informe, se autoriza el pago correspondiente.

Contrato: No. 005
Tipo de Contrato: CONVENIO
Contratista: **ALBA AMPARO CELIS HENAO**
Nit: 28.846.095

Objeto: ADQUISICION DE FORMATOS DE DIRECTORES DE GRADO, DOCENTES, COORDINADORES, EXPEDIENTES ACADEMICOS Y DISCIPLINARIOS ESTUDIANTILES, OBSERVADORES Y DEMÁS FORMATOS, GUIAS INSTITUCIONALES Y MATERIAL LITOGRAFICO DE LA INSTITUCIÓN EDUCATIVA TÉCNICA SUMAPAZ.

Plazo del contrato: (10) días calendario
Fecha iniciación: 16 de Julio de 2025
Fecha terminación: 25 de Julio de 2025
Valor a pagar: $ 20.832.900 (Pago total del contrato)
Número del PIN: 9488933798
Período cotizado: Junio de 2025

Se verificó que el contratista cumplió con la obligación de efectuar los aportes al Sistema Integral de Seguridad Social, de conformidad con lo dispuesto en el artículo 23 del Decreto 1703 de 2002, Ley 828 de 2003 y demás normas concordantes.

En constancia se firma a los 25 días del mes de julio de dos mil veinticinco (2025).

JEREMÍAS RUBIANO HERNÁNDEZ
Supervisor del Contrato

banco popular

WWW.BANCOPOPULAR.COM.CO

Autorizaciones

Empresa: **I.E.T SUMAPAZ**
Tipo Identificación: **NIT Persona Jurídica** **No. Identificación:** **800029382**
Generado por: **RICARDO ELIAS MORALES**

A continuación el detalle de: Transacciones Autorizadas - Autorizar

Pagos - PAGO FOTOCOPIAS

✔ **¡Autorización aprobada!**

Información del servicio

Tipo Archivo	Pagos
Nombre Archivo	PAGO FOTOCOPIAS
Valor Archivo	$19,989,319.00
Nro. Autorización	2058738
Nro. Total Registros	1 Registro
Fecha Carga	2025/07/24
Hora Carga	11:54

⚠ **Con esta acción usted acaba de realizar la autorización de esta transacción en su totalidad, en este instante comenzará el proceso de ejecución de la acción autorizada. Para ver el resultado diríjase a la consulta de Archivos Cargados.**